«СОСТАВЛЕНИЕ ЧИСЛА 5 ИЗ ЕДИНИЦ»

Подготовила:

Леушина Людмила Константиновна,

воспитатель

г. Алушта, 2020 г.

Определите, каким числом можно обозначить количество кругов на карточке. Подумайте, как можно составить это число с помощью предметов разного цвета.



5

Каким числом вы обозначили количество предметов на карточке? Сколько всего цветочков? Сколько цветочков жёлтого цвета? Сколько – синего? Как вы составили число?

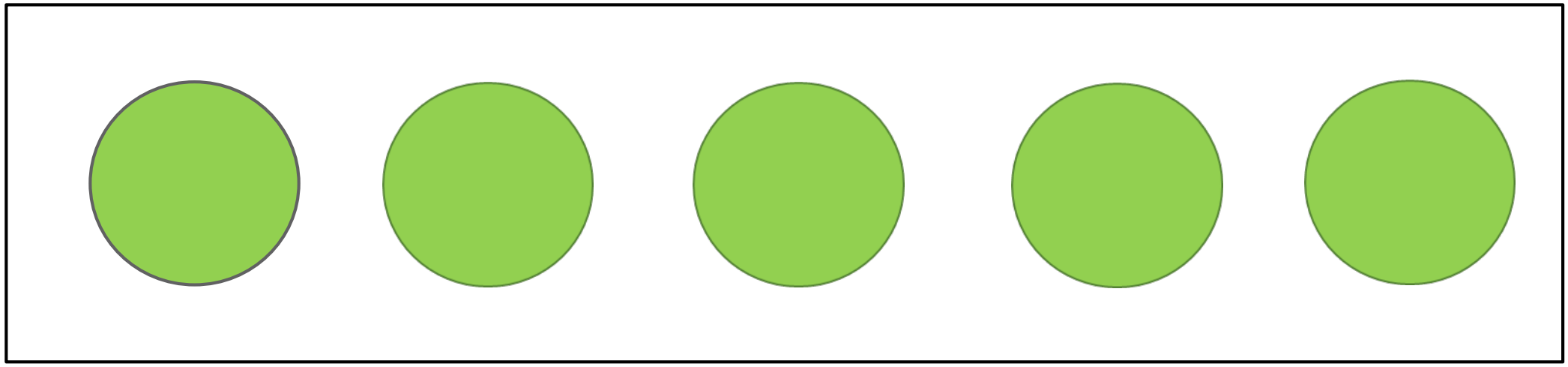

1 + 4 = 5

Каким числом вы обозначили количество предметов на карточке? Сколько всего ёлочек? Сколько ёлочек зелёного цвета? Сколько – синего? Как вы составили число?

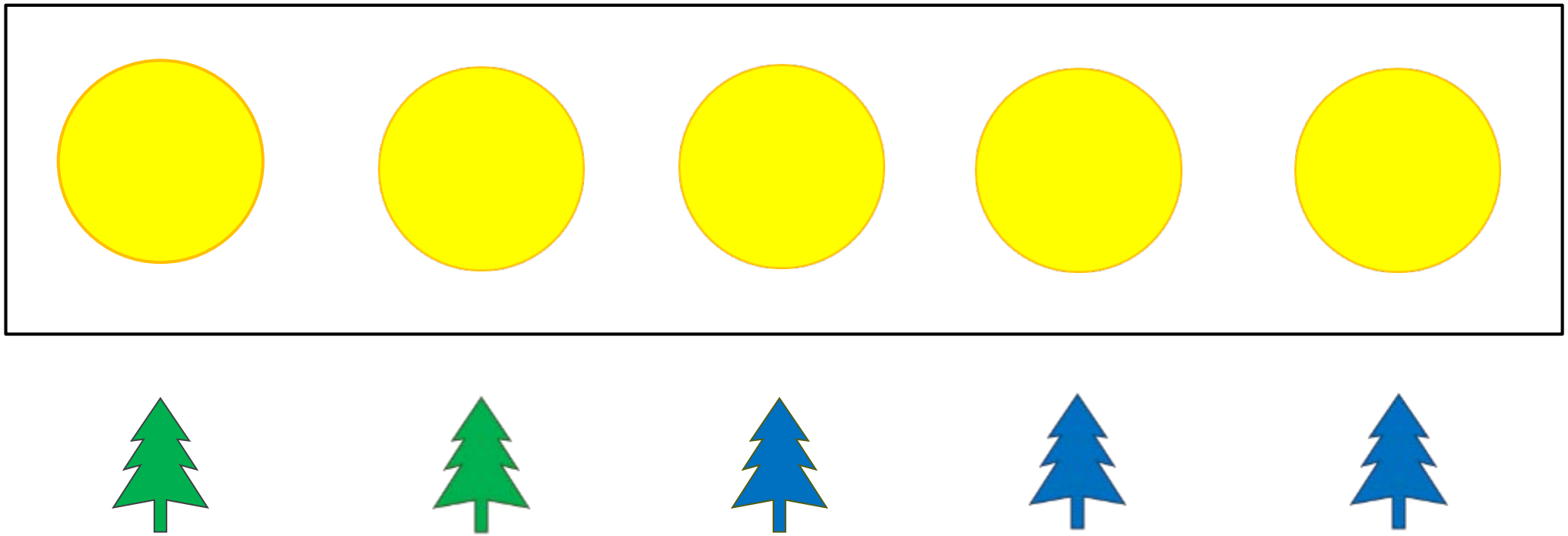

2 + 3 = 5

Каким числом вы обозначили количество предметов на карточке? Сколько всего машин? Сколько машин красного цвета? Сколько – зелёного? Как вы составили число?



3 + 2 = 5

Каким числом вы обозначили количество предметов на карточке? Сколько всего машин? Сколько машин красного цвета? Сколько – зелёного? Как вы составили число?



$$4 + 1 = 5$$

Какое это число? Как можно составить число 5 из единиц? Сколько единиц мы взяли? Как составили число 5? (1, 1, 1, 1 и ещё 1)

5

1 + 1 + 1 + 1 + 1

Пройди по плану и расскажи,
что ты видишь перед собой.

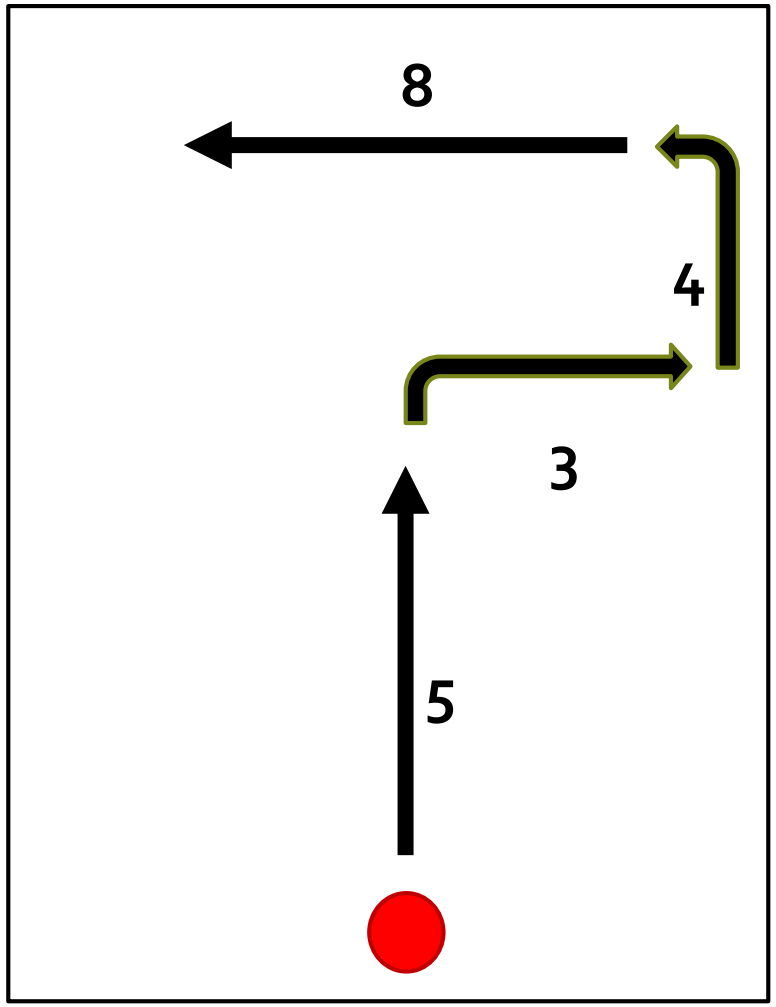

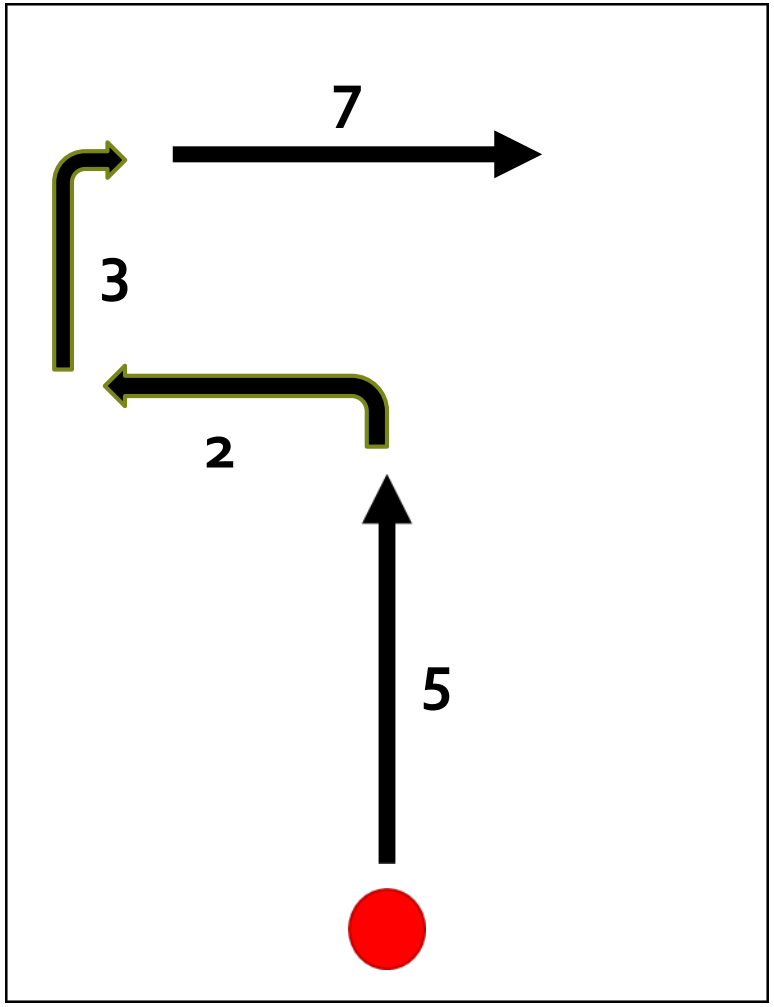

Назовите дни недели по порядку.

Покажите на календаре, какой сегодня день недели и назовите его.

Покажите и назовите, какой день недели был вчера.

Покажите и назовите, какой день недели будет завтра.

Найди выход из лабиринта, помоги собачка добраться до будки. Расскажи о своих действиях.

Найди выход из лабиринта, помоги девочке добраться до яблони. Расскажи о своих действиях.



Найди выход из лабиринта, помоги мальчику выйти из леса. Расскажи о своих действиях.